チリリン・タイム（解答）

自転車の通行場所や方法として正しいものに〇を、間違っているものに×を書きましょう。

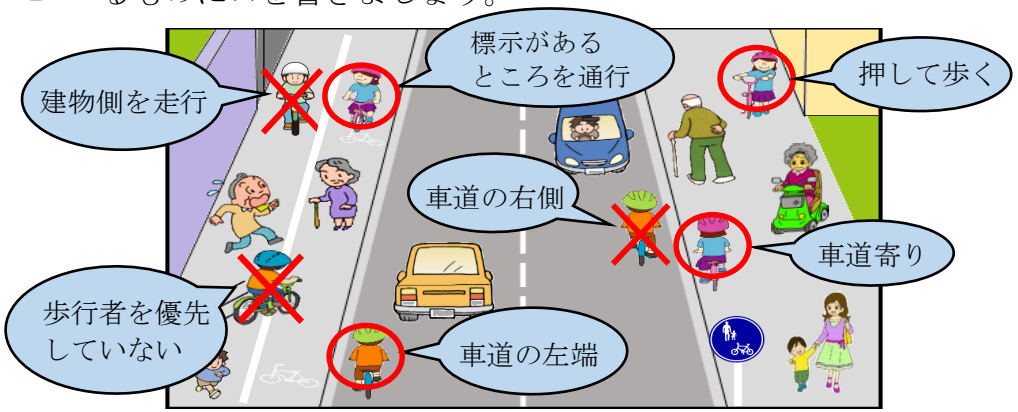

歩道を通行することの出来る場合（人）とは？

〇 自転車の運転者が 13 歳未満の人、70 歳以上の人、体の不自由な人。
〇 道路工事などにより、車道の左端を通行することが難しい時や、車の通行量が非常に多く、自転車を追い越す車両と接触する危険があるときなど、やむを得ないとき。
〇 自転車歩道通行可の標識（右図）がある歩道。

それぞれの絵で正しい走り方をしている自転車には〇を、間違っている自転車には×を書きましょう。

路側帯

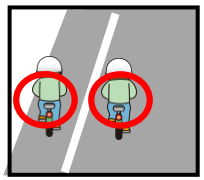

どちらも通行できます

駐停車禁止路側帯



どちらも通行できます

歩行者用路側帯

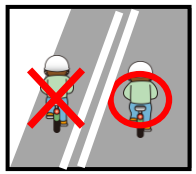

二重線の内側は
通行できません

正しい走り方をしている自転車には〇を、間違っている自転車には×を書きましょう。

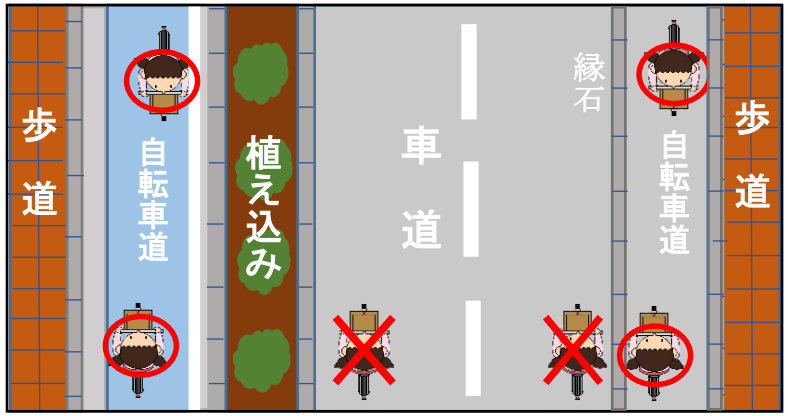

自転車道とは？

車道の部分を、縁石や柵などで区画されている部分。
道路の片側にしかない場合でも、普通自転車は必ずその自転車道の中を走らなければいけません。
道路の両側に自転車道がある場合には、どちらを走っても構いません。

正しい走り方をしている自転車には〇を、間違っている自転車には×を書きましょう。

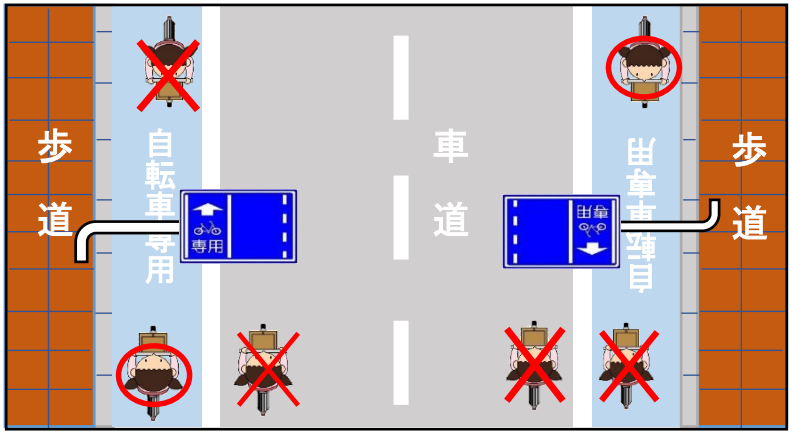

普通自転車専用通行帯とは？

車道の左端に、右図の標識がついているところ。
右側に設けられた普通自転車専用通行帯は走れません。